

Длина красного провода 80 м. Белый провод на 3 дм короче красного. Найди длину белого провода в дециметрах.

В таблице записаны цены продуктов. Сколько рублей надо заплатить за покупку, состоящую из двух пряников и двух молока?

Товар	Цена
Молоко	35руб.
Пряник	15 руб.
Масло	60 руб.
Шоколад	34 руб

Ответ: _____

Для котёнка купили упаковку витаминов. В упаковке 22 витаминки. Их нужно давать котёнку ежедневно по одной 3 раза в день. На какой день упаковка закончится? _____

Ответ:





Длина красного провода 80 м. Белый провод на 3 дм короче красного. Найди длину белого провода в дециметрах.

В таблице записаны цены продуктов. Сколько рублей надо заплатить за покупку, состоящую из двух пряников и двух молока?

Товар	Цена
Молоко	35руб.
Пряник	15 руб.
Масло	60 руб.
Шоколад	34 руб

Ответ: _____

Для котёнка купили упаковку витаминов. В упаковке 22 витаминки. Их нужно давать котёнку ежедневно по одной 3 раза в день. На какой день упаковка закончится? _____

Ответ: