

https://tetyuevanachalka.jimdofr

Выполни рисунок и реши задачи.
На столе лежало 2 стопки по 9 книг. Сколько всего книг на столе?

15 человек разделили поровну на 3 отряда. Сколько человек в каждом отряде?

Выполни вычисление столбиком.

45+ 37 **76 - 39**

6дм = ……..см
3дм = …..см
1дм 5см = ……..см
Начерти прямоугольник 3см и 2см. Найди периметр.





https://tetyuevanachalka.jimdofr

Выполни рисунок и реши задачи.
На столе лежало 2 стопки по 9 книг. Сколько всего книг на столе?

15 человек разделили поровну на 3 отряда. Сколько человек в каждом отряде?

Выполни вычисление столбиком.

45+ 37 **76 - 39**

6дм = ……..см
3дм = …..см
1дм 5см = ……..см
Начерти прямоугольник 3см и 2см. Найди периметр.